15	基本	分数×分数	逆数／計算のきまり	学習日	／

1 下の分数の中から2つを選んでかけたとき、積が1になるのは、どれとどれですか。（6点×2）

$\frac{3}{7}$　$\frac{2}{5}$　$\frac{7}{3}$　$\frac{1}{6}$　$\frac{5}{2}$

$\frac{B}{A}\times\frac{A}{B}=1$ になるね。

◉ $\frac{\square}{\square}\times\frac{\square}{\square}=1$ より $\square$ と $\square$

◉ $\frac{\square}{\square}\times\frac{\square}{\square}=1$ より $\square$ と $\square$

2つの数の積が1になるとき、一方の数を他方の数の**逆数**（ぎゃくすう）といいます。
分数の逆数は、分母と分子を入れかえた数になります。

2 次の整数や小数を分数に直し、それぞれの逆数を答えましょう。（5点×2）

(1) $6=\frac{\square}{1}$ だから、6の逆数は $\square$

(2) $0.7=\frac{\square}{10}$ だから、0.7 の逆数は $\square$

3 次の分数の逆数を答えましょう。（2点×4）

① $\frac{3}{5}$ [　　]　② $\frac{8}{7}$ [　　]　③ $\frac{7}{3}$ [　　]　④ $\frac{1}{4}$ [　　]

4 次の数の逆数を答えましょう。（2点×4）

① 4 [　　]　② 0.9 [　　]　③ 0.001 [　　]　④ 1.25 [　　]

5 $\square$ にあてはまる数を答えましょう。（2点×6）

(1) $1\frac{1}{2}\times\frac{\square}{3}=1$　(2) $1\frac{3}{5}\times\frac{5}{\square}=1$　(3) $2\frac{1}{3}\times\frac{3}{\square}=1$

(4) $0.5\times\frac{\square}{1}=1$　(5) $1.5\times\frac{2}{\square}=1$　(6) $0.75\times\frac{4}{\square}=1$

分数の計算でも，下のようなきまりがなりたちます。

(1) $a+b=b+a$　　(2) $(a+b)+c=a+(b+c)$

(3) $a\times b=b\times a$　　(4) $(a\times b)\times c=a\times(b\times c)$

(5) $(a+b)\times c=a\times c+b\times c$

(6) $(a-b)\times c=a\times c-b\times c$

6 整数のときの計算のきまりが，分数でも成り立つかどうかを調べます。それぞれの式を計算してみて，答えが等しければ，(　　)に○をつけましょう。　（5点×6）

(1) ㋐ $\frac{1}{2}+\frac{1}{3}=\square$　　㋑ $\frac{1}{3}+\frac{1}{2}=\square$　　(　　)

(2) ㋐ $(\frac{1}{2}+\frac{1}{3})+\frac{1}{4}=\square$　　㋑ $\frac{1}{2}+(\frac{1}{3}+\frac{1}{4})=\square$　　(　　)

(3) ㋐ $\frac{1}{2}\times\frac{1}{3}=\square$　　㋑ $\frac{1}{3}\times\frac{1}{2}=\square$　　(　　)

(4) ㋐ $\frac{1}{2}\times\frac{1}{3}\times\frac{1}{4}=\square$　　㋑ $\frac{1}{2}\times(\frac{1}{3}\times\frac{1}{4})=\square$　　(　　)

(5) ㋐ $(\frac{1}{2}+\frac{1}{3})\times\frac{1}{4}=\square$　　㋑ $\frac{1}{2}\times\frac{1}{4}+\frac{1}{3}\times\frac{1}{4}=\square$　　(　　)

(6) ㋐ $(\frac{1}{2}-\frac{1}{3})\times\frac{1}{4}=\square$　　㋑ $\frac{1}{2}\times\frac{1}{4}-\frac{1}{3}\times\frac{1}{4}=\square$　　(　　)

7 計算のきまりを使って，くふうして計算しましょう。　（5点×4）

(1) $\frac{5}{6}+\frac{1}{5}+\frac{7}{6}=$　　(2) $\frac{3}{4}\times\frac{5}{7}\times\frac{4}{3}=$

(3) $\frac{3}{8}\times\frac{1}{5}+\frac{1}{4}\times\frac{1}{5}=$　　(4) $1\frac{1}{3}\times\frac{5}{7}-\frac{1}{6}\times\frac{5}{7}=$

16	標準	分数×分数	まとめの問題	学習日	／

1 次の計算で正しいのはどれですか。記号で答えましょう。 （8点）

㋐ $\frac{4}{7}\times 3=\frac{4}{7\times 3}$　　㋑ $3\times\frac{4}{7}=\frac{4}{3\times 7}$

㋒ $\frac{2}{5}\times\frac{3}{7}=\frac{2\times 3}{5\times 7}$　　㋓ $\frac{2}{5}\times\frac{3}{7}=\frac{2\times 7}{5\times 3}$　　答え（　　）

2 次の計算をしましょう。 （2点×12）

① $\frac{1}{5}\times\frac{2}{3}$　② $\frac{7}{6}\times\frac{5}{4}$　③ $\frac{4}{3}\times\frac{4}{3}$

④ $3\times\frac{4}{7}$　⑤ $\frac{9}{5}\times 6$　⑥ $2\frac{1}{2}\times 3\frac{2}{3}$

⑦ $\frac{5}{6}\times\frac{2}{3}$　⑧ $\frac{8}{5}\times\frac{5}{12}$　⑨ $3\frac{3}{8}\times\frac{4}{9}$

⑩ $\frac{7}{6}\times\frac{4}{9}\times\frac{3}{7}$　⑪ $\frac{5}{4}\times\frac{9}{10}\times 2\frac{2}{3}$　⑫ $2\frac{1}{3}\times 1\frac{5}{7}\times 1\frac{3}{8}$

3 1Lの重さが900gの油があります。この油 $\frac{5}{3}$Lの重さは何gですか。 （6点）

（式）

答え（　　）

4 □にあてはまる数を書きましょう。 （6点×2）

(1) 1mが80gの針金（はりがね） $\frac{3}{4}$mの重さは□gです。

(2) $\frac{5}{7}$㎡の鉄板の $\frac{1}{3}$ の大きさは□㎡です。

5 次の分数の逆数を答えましょう。 （2点×4）

① $\frac{5}{6}$ [　　]　② $\frac{1}{9}$ [　　]　③ 0.06 [　　]　④ 0.125 [　　]

6 (　　)の中の単位で表しましょう。 （4点×3）

① $\frac{1}{4}$分(秒)　② $\frac{7}{5}$時間(分)　③ 12秒(分)

[　　]　[　　]　[　　]

7 ある2つの分数 $\frac{\triangle}{\square}$と$\frac{\bigcirc}{\circledcirc}$があって、$\frac{\triangle}{\square}\times\frac{\bigcirc}{\circledcirc}$ と $\frac{\triangle}{\square}-\frac{\bigcirc}{\circledcirc}$ の答えが同じになる組み合せを4つ見つけました。かけても、ひいても答えが同じになるか確かめましょう。また、このような2つの分数を、あと2組みつけましょう。 （5点×6）

(1) $\frac{1}{2}$と$\frac{1}{3}$ → $\frac{1}{2}\times\frac{1}{3}=$　$\frac{1}{2}-\frac{1}{3}=$

(2) $\frac{1}{4}$と$\frac{1}{5}$ → $\frac{1}{4}\times\frac{1}{5}=$　$\frac{1}{4}-\frac{1}{5}=$

(3) $\frac{2}{4}$と$\frac{2}{6}$ → $\frac{2}{4}\times\frac{2}{6}=$　$\frac{2}{4}-\frac{2}{6}=$

(4) $\frac{4}{3}$と$\frac{4}{7}$ → $\frac{4}{3}\times\frac{4}{7}=$　$\frac{4}{3}-\frac{4}{7}=$

(5) $\frac{\square}{\square}$と$\frac{\square}{\square}$ → $\frac{\square}{\square}\times\frac{\square}{\square}=$　$\frac{\square}{\square}-\frac{\square}{\square}=$

(6) $\frac{\square}{\square}$と$\frac{\square}{\square}$ → $\frac{\square}{\square}\times\frac{\square}{\square}=$　$\frac{\square}{\square}-\frac{\square}{\square}=$

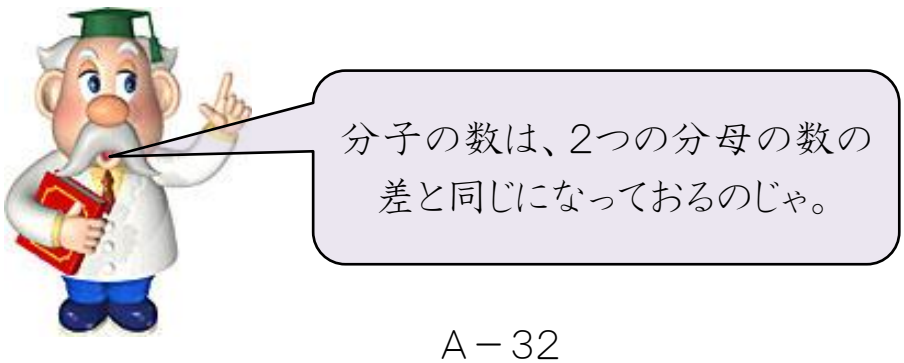

17	基本	分数÷分数	分数で割る計算－1	学習日	／

1 □にあてはまる数と答えをかきましょう。 （10点×3）

(1) $\frac{3}{5}$㎡のかべを２dLでぬれるペンキがあります。1dLでは何㎡ぬれますか。

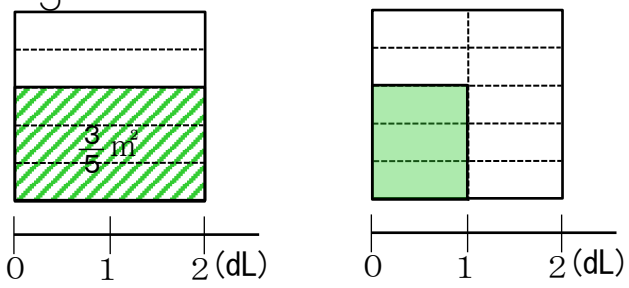

（式） $\frac{3}{5} \div 2 = \frac{3}{5 \times \square} = \frac{\square}{\square}$

答え（　　）

(2) $\frac{3}{5}$㎡のかべを$\frac{1}{3}$dLでぬれるペンキがあります。1dLでは何㎡ぬれますか。

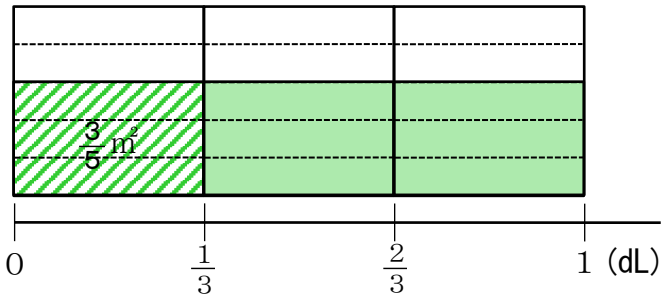

（式） $\frac{3}{5} \div \frac{1}{3} = \frac{3}{5} \times \square = \frac{\square}{\square}$

答え（　　）

(3) $\frac{3}{5}$㎡のかべを$\frac{2}{3}$dLでぬれるペンキがあります。1dLでは何㎡ぬれますか。

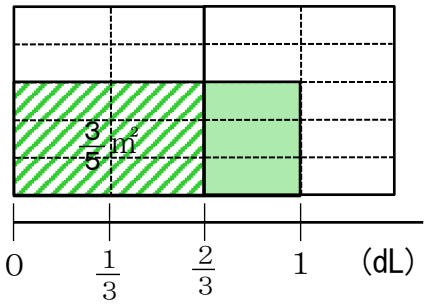

（式） $\frac{3}{5} \div \frac{2}{3} = \frac{3}{5 \times \square} \times 3 = \frac{3 \times \square}{5 \times \square} = \frac{\square}{\square}$

答え（　　）

2 わる数を1にして計算をします。□にあてはまる数をかきましょう。 （10点×2）

(1) $\frac{3}{5} \div \frac{1}{3}$

$= \left(\frac{3}{5} \times \frac{\square}{1}\right) \div \left(\frac{1}{3} \times \frac{\square}{1}\right)$

$= \left(\frac{3}{5} \times \frac{3}{1}\right) \div \square$

$= \frac{\square}{\square}$

(2) $\frac{3}{5} \div \frac{2}{3}$

$= \left(\frac{3}{5} \times \frac{\square}{\square}\right) \div \left(\frac{2}{3} \times \frac{\square}{\square}\right)$

$= \left(\frac{3}{5} \times \frac{\square}{\square}\right) \div \square$

$= \frac{\square}{\square}$

3 $\frac{2}{3}\div\frac{7}{5}=\frac{2}{3}\times\frac{5}{7}$ となることを、**2**と同じ方法で説明します。□にあてはまる数をかきましょう。 （14点）

右のように、わる数が1になる数を、わられる数とわる数の両方にかけます。

$\frac{7}{5}\times$ □ ＝1になるから、 □ を両方にかけます。

$\frac{2}{3}\div\frac{7}{5}=\frac{2}{3}\times$ □ $=\frac{\square\times\square}{\square\times\square}=$ □

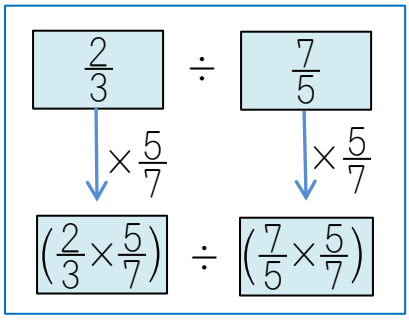

4 次の計算をしましょう。 （2点×9）

① $\frac{1}{3}\div5$　② $\frac{6}{5}\div9$　③ $\frac{9}{7}\div3$

④ $\frac{3}{4}\div\frac{1}{5}$　⑤ $\frac{2}{5}\div\frac{1}{3}$　⑥ $\frac{5}{6}\div\frac{1}{7}$

⑦ $5\div\frac{1}{3}$　⑧ $2\div\frac{1}{2}$　⑨ $4\div\frac{1}{8}$

5 次の計算をしましょう。 （2点×9）

① $\frac{1}{4}\div\frac{2}{3}$　② $\frac{2}{7}\div\frac{5}{6}$　③ $\frac{3}{5}\div\frac{7}{4}$

④ $\frac{1}{2}\div\frac{3}{4}$　⑤ $\frac{5}{6}\div\frac{8}{3}$　⑥ $\frac{7}{3}\div\frac{7}{8}$

⑦ $\frac{5}{6}\div\frac{5}{3}$　⑧ $\frac{9}{10}\div\frac{3}{5}$　⑨ $\frac{5}{12}\div\frac{10}{9}$

18	基本	分数÷分数	分数で割る計算－２	学習日	／

分数のわり算では、わる数の逆数
(分母と分子を入れかえた数)をかけます。

$$\frac{B}{A} \div \frac{D}{C} = \frac{B \times C}{A \times D}$$

1 $6\frac{2}{5}$mのひもを$\frac{4}{5}$mずつに切ると、何本できますか。 (8点×2)

(1) 長さが整数のときと同じように考えて、式に表しましょう。

(式) □

(2) 帯分数を仮分数になおして計算しましょう。

(式) □ $= \frac{□}{□} \times \frac{□}{□} =$ □

答え〔　　本〕

2 (1) $6 \div \frac{2}{5}$,(2) $\frac{3}{4} \div 7$の計算をしましょう。 (7点×2)

(整数を、分母が1の分数になおしてから計算します。)

(1) $6 \div \frac{2}{5} = \frac{6}{1} \div \frac{2}{5}$

$= \frac{□}{□} \times \frac{□}{□}$

$=$ □

(2) $\frac{3}{4} \div 7 = \frac{3}{4} \div \frac{7}{1}$

$= \frac{□}{□} \times \frac{□}{□}$

$=$ □

3 長さが$1\frac{2}{5}$mで、重さが2kgの鉄管があります。この鉄管1mの重さは何kgですか。 (10点)

(式)

答え〔　　〕

4 1Lあたりの重さが$\frac{7}{8}$kgの油が$2\frac{4}{5}$kgあります。この油は何Lありますか。 (10点)

(式)

答え〔　　〕

5 次の計算をしましょう。 （2点×9）

① $2\frac{1}{2} \div \frac{3}{5}$　② $2\frac{1}{3} \div \frac{4}{5}$　③ $\frac{4}{5} \div 2\frac{1}{3}$

④ $\frac{2}{3} \div 1\frac{2}{3}$　⑤ $\frac{4}{9} \div 2\frac{2}{3}$　⑥ $1\frac{1}{6} \div \frac{5}{9}$

⑦ $1\frac{1}{4} \div 2\frac{1}{2}$　⑧ $2\frac{2}{3} \div 1\frac{1}{5}$　⑨ $2\frac{1}{2} \div 3\frac{3}{4}$

6 次の計算をしましょう。 （2点×9）

① $3 \div \frac{5}{7}$　② $4 \div \frac{2}{5}$　③ $4 \div \frac{6}{7}$

④ $\frac{2}{5} \div 7$　⑤ $\frac{5}{6} \div 5$　⑥ $\frac{4}{3} \div 8$

⑦ $9 \div \frac{15}{8}$　⑧ $40 \div \frac{8}{3}$　⑨ $60 \div \frac{9}{4}$

7 水道のじゃ口をきっちりしめなかったので、$\frac{1}{6}$時間で$\frac{3}{20}$Lの水がむだになりました。 （7点×2）

① 1時間水道のじゃ口をきっちりしめないでいると、何Lの水がむだになりますか。

（式）

答え〔　　〕

② 1Lの水がむだになるのは、何時間水道のじゃ口をきっちりしめなかったときですか。

（式）

答え〔　　〕

19	基本	分数÷分数	練習問題	学習日	／

1 次の計算をしましょう。 （3点×9）

① $\frac{1}{5} \div \frac{2}{3}$　② $\frac{3}{7} \div \frac{1}{4}$　③ $\frac{5}{6} \div \frac{7}{5}$

④ $\frac{1}{4} \div \frac{5}{6}$　⑤ $\frac{2}{3} \div \frac{4}{3}$　⑥ $\frac{3}{8} \div \frac{9}{4}$

⑦ $\frac{7}{5} \div \frac{7}{6}$　⑧ $\frac{3}{10} \div \frac{9}{8}$　⑨ $\frac{7}{24} \div \frac{14}{9}$

2 $\frac{4}{7}$ ㎡のかべを$\frac{2}{9}$dLでぬれるペンキがあります。1dLでは何㎡ぬれますか。 （9点）

（式）

答え〔　　〕

3 長さが $\frac{3}{4}$ mのリボンがあります。 （7点×2）

① $\frac{1}{8}$mずつに切ると、何本のリボンができますか。

（式）

答え〔　　〕

② $\frac{3}{20}$mずつに切ると、何本のリボンができますか。

（式）

答え〔　　〕

4 次の計算をしましょう。 （3点×9）

① $4 \div \frac{1}{3}$　② $8 \div \frac{4}{5}$　③ $45 \div \frac{9}{10}$

④ $\frac{5}{8} \div 5$　⑤ $1\frac{3}{7} \div \frac{2}{5}$　⑥ $2\frac{4}{9} \div \frac{8}{3}$

⑦ $3\frac{5}{6} \div \frac{4}{9}$　⑧ $1\frac{3}{7} \div 1\frac{1}{4}$　⑨ $4\frac{4}{5} \div 1\frac{4}{5}$

5 油を$\frac{4}{5}$L買ったら、800円でした。この油1Lの値段（ねだん）は何円ですか。 （7点）

（式）

答え〔　　〕

6 重さが$1\frac{4}{5}$kgで、1080円のとり肉があります。このとり肉1kgの値段は何円ですか。 （8点）

（式）

答え〔　　〕

7 1mあたりの重さが$\frac{4}{5}$kgの鉄管が$2\frac{2}{5}$kgあります。この鉄管は何mありますか。 （8点）

（式）

答え〔　　〕

20	基本	分数÷分数	分数のわり算を使って①	学習日	／

1 びんにジュースが300mL入っています。これは、びん全体のかさの $\frac{3}{8}$ にあたります。びん全体では何mL入りますか。（10点）

全体の量 □mL $\xrightarrow{\frac{3}{8}\text{倍}}$ ジュース 300mL



全体の量の $\frac{3}{8}$ が300mLであることから考えよう。

（式）

答え〔　　〕

2 機械で、56aの芝（しば）を1時間10分でかりました。1時間あたり何aの芝をかったことになりますか。□にあてはまる数をかいてから求めましょう。（10点×2）

① 時間を分数で表しましょう。

1時間10分は□分だから、□÷□＝$\frac{□}{□}$ 時間

② 1時間あたり何aの芝をかったのか求めましょう。

（式）

答え〔　　〕

3 ① 5÷3，② 5÷0.3をかけ算の式になおして計算しましょう。（5点×2）

① 5÷3＝5÷$\frac{□}{□}$＝5×$\frac{□}{□}$＝$\frac{□}{□}$

② 5÷0.3＝5÷$\frac{□}{□}$＝5×$\frac{□}{□}$＝$\frac{□}{□}$

3，0.3を分数になおして考えよう。

4 ① $\frac{5}{8}\times\frac{3}{5}\div\frac{6}{7}$，② 0.8÷3÷1.6をかけ算の式になおして計算しましょう。（5点×2）

① $\frac{5}{8}\times\frac{3}{5}\div\frac{6}{7}=\frac{5}{8}\times\frac{3}{5}\times\frac{□}{□}=\frac{□\times□\times□}{□\times□\times□}=\frac{□}{□}$

1つの分数になおして約分してから計算しよう。

② 0.8÷3÷1.6＝$\frac{□}{□}\times\frac{□}{□}\times\frac{□}{□}=\frac{□\times□\times□}{□\times□\times□}=\frac{□}{□}$

5 □にあてはまる数を書きましょう。 （5点×2）

(1) □人の $\frac{1}{3}$ は30人です。

(2) 6kgは、□kgの $\frac{2}{5}$ です。

6 機械で、18aの芝を20分でかりました。1時間では何aの芝をかることができますか。 （10点）

（式）

答え〔　　〕

7 次の計算をしましょう。 （3点×10）

① $\frac{1}{8} \div \frac{1}{2} \div \frac{5}{6}$

② $\frac{5}{6} \div \frac{2}{3} \times \frac{9}{10}$

③ $\frac{5}{9} \div 5 \div \frac{5}{6}$

④ $\frac{4}{3} \times \frac{7}{8} \div 7$

⑤ $\frac{3}{10} \times \frac{5}{8} \div 0.6$

⑥ $\frac{10}{15} \div \frac{3}{5} \div 0.2$

⑦ $0.75 \div 1.25 \times 3$

⑧ $0.25 \div 4 \div 1.75$

⑨ $8 \div 6 \times 18$

⑩ $12 \div 16 \times 20$

21	基本	分数÷分数	分数のわり算を使って②	学習日	／

1 次のような計算のきまりが、分数のときにも使えることを、■に$\frac{1}{2}$, ●に$\frac{1}{3}$, ▲に$\frac{1}{4}$をあてはめて確かめましょう。（3点×6）

① ■×●＝●×■

$\frac{1}{2}\times\frac{1}{3}=$　　$\frac{1}{3}\times\frac{1}{2}=$

② （■×●）×▲＝■×（●×▲）

$\left(\frac{1}{2}\times\frac{1}{3}\right)\times\frac{1}{4}=$　　$\frac{1}{2}\times\left(\frac{1}{3}\times\frac{1}{4}\right)=$

③ （■＋●）×▲＝■×▲＋●×▲

$\left(\frac{1}{2}+\frac{1}{3}\right)\times\frac{1}{4}=$　　$\frac{1}{2}\times\frac{1}{4}+\frac{1}{3}\times\frac{1}{4}=$

2 次の計算を、いろいろなしかたで計算します。□にあてはまる数をかきましょう。（8点×4）

(1) 3.5×1.5÷7.5

㋐ 3.5×1.5÷7.5

＝□÷7.5

＝□



㋑ 3.5×1.5÷7.5

$=\frac{\square}{\square}\times\frac{\square}{\square}\times\frac{\square}{\square}$

＝□

(2) $\frac{12}{5}\times\left(\frac{1}{3}+\frac{1}{4}\right)$

㋐ $\frac{12}{5}\times\left(\frac{1}{3}+\frac{1}{4}\right)$

$=\frac{12}{5}\times\left(\frac{\square}{\square}+\frac{\square}{\square}\right)$

$=\frac{12}{5}\times\frac{\square}{\square}$

$=\frac{\square}{\square}$

㋑ $\frac{12}{5}\times\left(\frac{1}{3}+\frac{1}{4}\right)$

$=\frac{12}{5}\times\frac{1}{3}+\frac{12}{5}\times\frac{1}{4}$

$=\frac{\square}{\square}+\frac{\square}{\square}$

$=\frac{\square}{\square}$

3 次のわり算の式を㋐、㋑、㋒に分けて(　　)に記号を書きましょう。　（2点×5）

㋐ 商＞80	㋑ 商＝80	㋒ 商＜80

① $80 \div \frac{1}{4}$ (　　)　② $80 \div 1$ (　　)　③ $80 \div \frac{3}{5}$ (　　)

④ $80 \div 1\frac{1}{2}$ (　　)　⑤ $80 \div \frac{7}{4}$ (　　)

わる数＞1のとき、商＜わられる数
わる数＜1のとき、商＞わられる数だよ。

4 次の計算をしましょう。　（4点×8）

① $4.5 \times 1.5 \div 1.8$　② $3.5 \times 4.5 \div 2.1$

③ $\frac{3}{5} \div (2.7 \div 1.5)$　④ $\frac{3}{4} \div (2.1 \div 1.4)$

⑤ $\left(\frac{1}{2}+\frac{2}{3}\right) \times \frac{6}{7}$　⑥ $\left(\frac{3}{4}-\frac{1}{3}\right) \div \frac{5}{6}$

⑦ $\frac{1}{2} \times \frac{3}{7} + \frac{3}{7} \times \frac{1}{3}$　⑧ $\frac{3}{4} \times \frac{5}{9} - \frac{2}{5} \times \frac{3}{8}$

5 次のわり算の式を、商の大きい順に並(なら)べて記号で答えましょう。　（8点）

㋐ $150 \div \frac{2}{5}$　㋑ $150 \div 1$　㋒ $150 \div \frac{5}{3}$　㋓ $150 \div \frac{3}{5}$

答え(　　➔　　➔　　➔　　)

22	基本	分数÷分数	割合を表す分数／文と図と式	学習日	／

1 右のような，赤，青，黄の3本のリボンがあります。（10点×3）

赤	$\frac{3}{5}$ m
青	2 m
黄	$\frac{6}{5}$ m

(1) 赤のリボンの長さは，黄のリボンの長さの何倍になっていますか。

（式）□ ＝ □

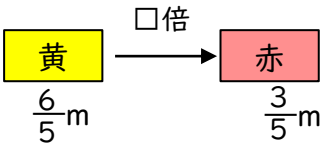

答え □倍

(2) 青のリボンの長さは，黄のリボンの長さの何倍になっていますか。

（式）□ ＝ □

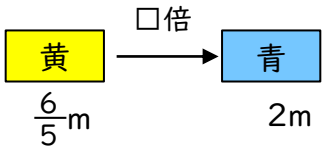

答え □倍

(3) 黄のリボンの長さを1とした時，赤のリボンの長さ，青のリボンの長さは，それぞれ何分のいくつにあたる大きさになっていますか。

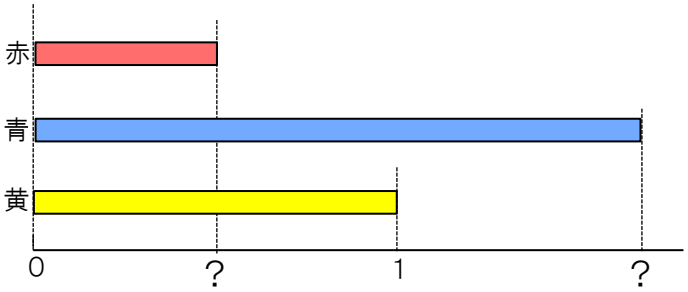

答え… 赤 □，青 □

2 3Lのお茶のうち，$\frac{9}{5}$Lをのみました。はじめの量を1としたとき，飲んだ量はどれだけにあたりますか。（13点）

（式）

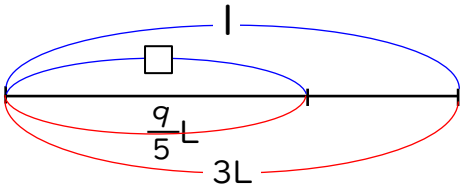

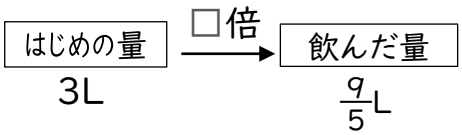

答え（　　）

3 水とうにお茶を400mL入れました。これは，水とう全体の容積の $\frac{5}{8}$ にあたります。水とう全体では，何mL 入りますか。 （13点）

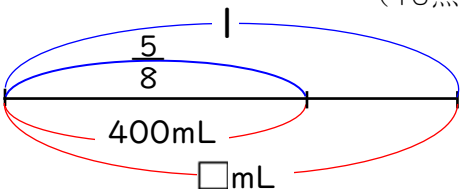

（式）

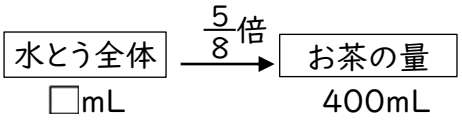

答え（　　）

4 右のようなテープの $\frac{2}{3}$ に色をぬりました。また，色のついた部分の長さは $\frac{5}{3}$ m です。テープ全体の長さは何mですか。 （14点）

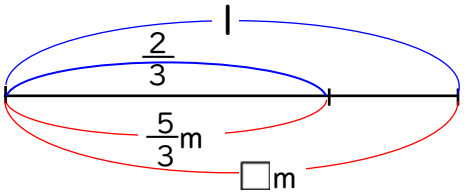

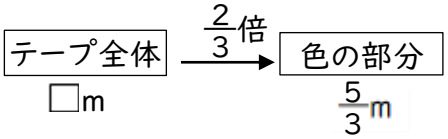

（式）

答え（　　）

5 □ にあてはまる数を書きましょう。 （10点×3）

(1) □円の $\frac{1}{5}$ は30円です。

（式）

答え（　　）

(2) 6kgは，□kgの $\frac{3}{8}$ の重さです。

（式）

答え（　　）

(3) $\frac{1}{6}$ 時間は，□ 時間の $\frac{1}{5}$ です。

（式）

答え（　　）